Compétence : *Trouver la moitié d'un nombre inférieur ou égal à 20.*

Prénom ..... **Date** .....

1 Il y a 8 étoiles. **Colorie** autant d'étoiles rouges que d'étoiles jaunes.

8 = ... + ... La moitié de 8 est ..... .

2 Quel est le nombre de billes ? .....

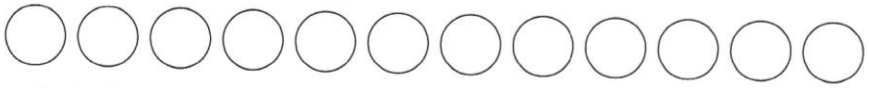

Colorie autant de billes rouges que de billes jaunes.

..... = ... + ... La moitié de ..... est ..... .

3 Quel est le nombre de triangles ? .....

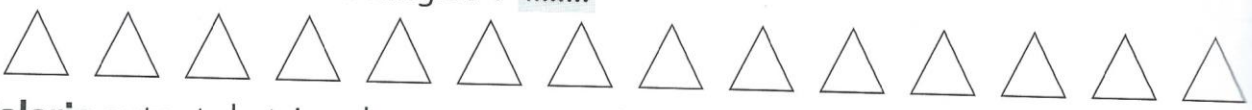

Colorie autant de triangles rouges que de triangles jaunes.

..... = ... + ... La moitié de ..... est ..... .

4 Quel est le nombre de lunes ? .....

Colorie autant de lunes rouges que de lunes jaunes.

..... = ... + ... La moitié de ..... est ..... .

5 Julia a 5 bonbons.

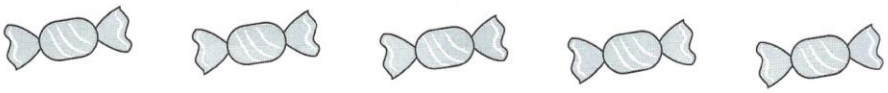

Julia peut-elle en faire 2 parts égales ? ☐ oui ☐ non

Le nombre 5 a-t-il une moitié ? ☐ oui ☐ non

5 est-il un nombre pair ? ☐ oui ☐ non